T.C.
MİLLÎ EĞİTİM BAKANLIĞI
ÖLÇME, DEĞERLENDİRME VE SINAV HİZMETLERİ GENEL MÜDÜRLÜĞÜ

2016 - 2017

ÜNİVERSİTE HAZIRLIK

LYS DEĞERLENDİRME SINAVI - 4

LYS - 4 SOSYAL BİLİMLER TESTİ

Adı ve Soyadı : .....
Sınıfı : .....
Öğrenci Numarası : .....

SORU SAYISI : 90
SINAV SÜRESİ : 135 Dakika

- Değerlendirme Sınavı 4 bölümden oluşmaktadır.
  1. Tarih (44 Soru)
  2. Coğrafya (14 Soru)
  3. Sosyoloji, Psikoloji ve Mantık (24 Soru)
  4. Din Kültürü ve Ahlak Bilgisi (8 Soru)
- Bu sınav, 2016 – 2017 Eğitim – Öğretim Yılı "Destekleme ve Yetiştirme Kursları"ndaki öğrencilerin kavrama düzeylerini ölçmek amacıyla hazırlanan "Değerlendirme Sınavı"dır.
- Sorular, 2016 – 2017 Eğitim Öğretim Programları dikkate alınarak oluşturulmuştur.

SINAV BAŞLAMADAN ÖNCE
KİTAPÇIĞIN ARKA KAPAĞINDAKİ UYARILARI MUTLAKA OKUYUNUZ.

SOSYAL BİLİMLER TESTİ

Bu testte, (Tarih 1 - 44, Coğrafya 45 - 58, Sosyoloji, Psikoloji, Mantık 59-73, Din Kültürü ve Ahlak Bilgisi 74-82 alanlarına ait) toplam 90 soru bulunmaktadır.

1. Tarihe yardımcı olan bilim dallarının başında kronoloji ve coğrafya gelir.

Bu bilim dallarının tarihe katkıları arasında aşağıdakilerden hangisi gösterilemez?

A) Coğrafi konumun önemini ifade etme
B) Olaylar arasında neden-sonuç bağını kurma
C) Bölgelerin iklimleri hakkında açıklama yapma
D) Deney ve gözlem metodunu işler hale getirme
E) Yeryüzü şekillerinin insana etkisini ortaya koyma

2. **İlk Çağ toplumlarında aşağıdaki kavramlardan hangisinin siyasi bir nitelik taşıdığı söylenemez?**

A) Polis B) Nom C) Tapates D) Site E) Satraplık

3. **İlk Çağ toplumlarında ilmi faaliyetlerin gelişmesinde ve sonraki nesillere aktarılmasında;**

I. İpek,
II. Papirüs,
III. Parşömen

unsurlarından hangilerinin etkili bir araç olduğu söylenebilir?

A) Yalnız I B) Yalnız II C) I ve II D) II ve III E) I,II ve III

4. Kudüs, tarih boyunca önemli sayılmış ve uygarlıklar buraya sahip olabilmek için yüzlerce yıldır mücadele etmişlerdir.

Aşağıdakilerden hangisi Kudüs'ün Müslüman, Hristiyan ve Yahudiler için kutsal sayılmasının temel nedenidir?

A) Üç din için de kutsal kabul edilen mabetlerin burada bulunması
B) Jeopolitik açıdan önemli bir yerde bulunması
C) Gelişmiş ticaret yolları üzerinde bulunması
D) Tek tanrı inancını İbranilerin başlatmaları
E) Tabiat güzellikleri açısından eşsiz olması

5. İslamiyet öncesi Türk devletlerinden olan Uygurlar kendinden önceki Türk devletlerine göre daha gelişmiş bir kültür ve uygarlık seviyesine sahiptir.

Uygurların kültürel yapısının gelişmesinde aşağıdakilerden hangisi daha etkili olmuştur?

A) Yönetimde "Ülke hanedan üyelerinin ortak malıdır" anlayışının uygulanması
B) Ülkeyi ikili teşkilat sistemine göre yönetmeleri
C) Tarımsal üretimle uğraşmaları
D) İpek yoluna hâkim olmaları
E) Yerleşik hayata geçmeleri

MEB 2016 - 2017 • Ölçme, Değerlendirme ve Sınav Hizmetleri Genel Müdürlüğü • http : / / odsgm. meb. gov. tr/ kurslar

6. **Türk-İslam dönemlerine ait kaynaklarda yer alan,**

- Babası bey ise oğul da bey doğar, o da babaları gibi bey olur. (Kutadgu Bilig)
- Aç görsem doyurdum. Yalıncak görsem donattım tepe gibi et yığdırdım. (Dede Korkut Hikayeleri)
- Tanrı'nın devlet güneşini Türk burçlarından doğdurmuş olduğunu gördüm. Tanrı onlara Türk adını verdi ve onları yeryüzüne hükümdar yaptı. (Divan-ü Lügati't-Türk)

Türk-İslam dönemlerine ait yukarıdaki kaynaklarda yer alan bilgilere bakarak aşağıdaki anlayışlardan hangisinin devam ettiği söylenemez?

A) Kut
B) Veraset sistemi
C) İkili devlet anlayışı
D) Sosyal devlet anlayışı
E) Cihan hakimiyeti düşüncesi

7. **İslam bilimi, felsefesi ve kültürünün Avrupa'ya geçmesinde ve Batı kültürünü etkilemesinde aşağıdakilerden hangisinin etkisi olmamıştır?**

A) Haçlı Seferleri
B) Endülüs İslam Medreseleri
C) Balkanlara yerleşen Osmanlı müesseseleri
D) Kavimler Göçü ile Avrupa'da Avrupa Hun Devleti'nin kurulması
E) Hint ticaret yollarının aranması için coğrafya kitaplarının tercümesi

8. I. Emeviler
II. Beni Ahmer Devleti
III. Endülüs Emevi Devleti

Yukarıdaki devletlerden hangilerinin, İslamiyet'in İspanya'da yayılmasında ve yerleşmesinde çalışmalarda bulunduğu söylenebilir?

A) Yalnız I B) Yalnız II C) Yalnız III
D) II ve III E) I, II ve III

9. İlk Çağ Yunan eserlerinin incelenmesiyle başlayan İslam felsefesi, görüş ve düşüncelerle Avrupalıları uzun süre etkilemiştir.

Buna göre;

I. Farabi,
II. İbn-i Rüşd,
III. İbn-i Sina

filozoflarından hangilerinin yazdığı eserlerle Avrupalıları etkilediği söylenebilir?

A) Yalnız I B) Yalnız II C) Yalnız III
D) II ve III E) I, II ve III

10. Türkler, İslamiyet'i kabul ettikten sonra,

- İslam dininin daha geniş alanlara yayılmasını sağlamışlardır.
- Haçlı Seferleri'ne karşı koyarak mücadele etmişlerdir.
- İslam kültür ve medeniyetinin gelişmesine katkıda bulunmuşlardır.

Yukarıdaki gelişmelerin gerçekleşmesinde aşağıdaki Türk devletlerinden hangisinin bir katkısı olduğu söylenemez?

A) Uygurlar
B) Gazneliler
C) Karahanlılar
D) Büyük Selçuklu Devleti
E) Türkiye Selçuklu Devleti

MEB 2016 - 2017 • Ölçme, Değerlendirme ve Sınav Hizmetleri Genel Müdürlüğü • http : / / odsgm. meb. gov. tr/ kurslar

11. **Büyük Selçuklu Devleti'nin hukuk sisteminin oluşmasında aşağıdakilerden hangisinin etkisi olmamıştır?**

A) Oğuz kabile gelenekleri

B) Abbasi Devleti'nin uygulamaları

C) Köktürk, Uygur ve Akhun gelenekleri

D) Karahanlılar ve Gaznelilerden alınan uygulamalar

E) Roma hukukunun gelişiminde etkili olan 12 Levha Kanunları

12. **935-969 yılları arasında Mısır'da hüküm süren, Mekke ve Medine'nin içerisinde bulunduğu Hicaz Bölgesi'ni ele geçiren ilk Türk-İslam devleti aşağıdakilerden hangisidir?**

A) Eyyubiler

B) Selçuklular

C) Tolunoğulları

D) İhşidiler (Akşitler)

E) Memlükler (Kölemenler)

13. Artuklular Devri'nin tanınmış en önemli bilim insanları arasında yer alır. Fizik alanında çalışmalar yapmıştır. Haberleşme, kontrol-denge kurma ve ayarlama ilmi olan siber tekniğinin kurucusudur. Dişli çarkları ile çalışan makineler, güneş ve su saati, mekanik müzik aletleri, şifreli kilitler önemli çalışmaları arasında gösterilebilir.

Yukarıda hakkında bilgi verilen bilim insanı aşağıdakilerden hangisidir?

A) Cabir Bin Hayyan B) El Biruni

C) Gazali D) El Cezeri

E) Ömer Hayyam

14. **Türkiye Selçuklu Devleti'nin ele geçirmiş olduğu limanlarda Avrupalı tüccarlara düşük gümrük tarifesi uygulamasının temel nedeni aşağıdakilerden hangisidir?**

A) Avrupa siyasi birliğini bozmak

B) Anadolu'da siyasi birliği sağlamak

C) Denizlerde hâkimiyeti ele geçirmek

D) Ticari ilişkileri geliştirerek ekonomiyi canlandırmak

E) Devlet yönetiminde yabancı tüccarlara da yer vermek

15. Osmanlı Devleti'nde II. Mehmet'in vefatından sonra devşirme kökenli devlet adamları II. Bayezit'i, Türkmen devlet adamları Cem'i desteklemişlerdir. Bu rekabetin sonucunda 1481'de II. Bayezit Osmanlı tahtına oturmuştur.

Bu durum, Osmanlı Devleti'nde aşağıdaki kurumlardan hangisinin önemini artırmıştır?

A) Sahn-ı Seman Medresesi

B) Süleymaniye Medresesi

C) Darulhadis Medresesi

D) Şehzadegân Mektebi

E) Enderun Mektebi

16. **Osmanlı Devleti'nde Ortodoks Kilisesi'ni kontrol altına almak için kilisenin başına Osmanlı yanlısı patrik atayan ilk padişah aşağıdakilerden hangisidir?**

A) II. Murat B) I. Selim C) I. Murat

D) I. Süleyman E) II. Mehmet

MEB 2016 - 2017 • Ölçme, Değerlendirme ve Sınav Hizmetleri Genel Müdürlüğü • http://odsgm.meb.gov.tr/kurslar

17.

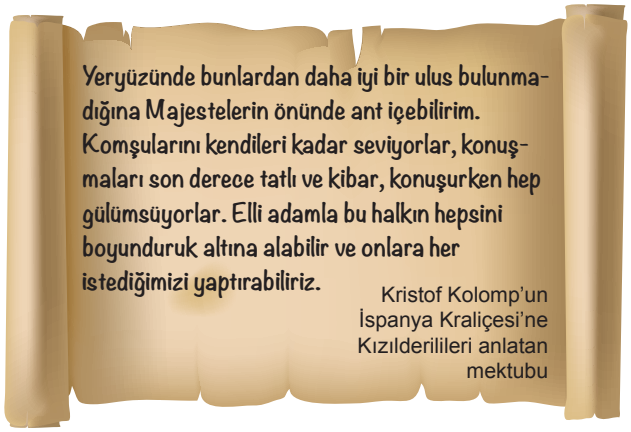

Yukarıda verilen mektup, aşağıda verilen gelişmelerden hangisinin bir sonucudur?

A) Amerikan Bağımsızlık Savaşı

B) Otuz Yıl Savaşları

C) Yüzyıl Savaşları

D) Coğrafi Keşifler

E) Haçlı Seferleri

18. Sevil öğretmen öğrencilerine, "Yavuz Sultan Selim, sekiz yıllık padişahlığı sırasında Osmanlı Devleti'ni askerî, ekonomik ve siyasi bakımdan zirveye çıkararak kendinden sonra tahta çıkacak olan oğlu Kanuni Sultan Süleyman'ın başarılı olması için gerekli şartları hazırlamıştır. " demiştir.

Sevil öğretmen bu düşüncesini desteklemek için aşağıdakilerden hangisini kanıt olarak gösteremez?

A) Turnadağ Savaşı'ndan sonra Anadolu Türk siyasi birliğinin sağlanmasını

B) Çaldıran Savaşı'nda Safevi Devleti'ni yenerek Şii tehlikesini önlemesini

C) Mısır'ın alınarak Osmanlı hazinesinin zenginleşmesini

D) Güçlü bir donanma meydana getirilmesini

E) Bozoklu Celal Ayaklanması'nın çıkmasını

19. Osmanlı Devleti, XVII. yüzyılda Akdeniz ticaretini canlandırmak için Fransa'ya kapitülasyonlar vermiş, kanal projelerini hazırlamış, dört kez Hint deniz seferleri düzenlemiştir. Ancak bu çalışmalarında başarılı olamamıştır.

Aşağıdakilerden hangisinin bu çalışmalardaki başarısızlığın bir nedeni olduğu söylenemez?

A) Coğrafi bilgi eksikliği

B) Coğrafi Keşiflerin başlaması

C) Portekiz donanmasının güçlü olması

D) Venedik'e ticari imtiyazların verilmesi

E) Kırım hanı ve Rusların kanal çalışmasını istememesi

20. Tarih öğretmeni Ali Bey, Osmanlı Devleti'nin denizlerdeki faaliyetlerini anlatırken; "XVI. yüzyıldaki Preveze Deniz Savaşı'nın kazanılması ve Kıbrıs adasının fethi ile Akdeniz'i hâkimiyeti altına alan Osmanlı Devleti, XVII. yüzyılda yaptığı fetihlerle de Akdeniz hâkimiyetini kuvvetlendirmiştir." demiştir.

Ali Bey, bu düşüncesine aşağıdaki askerî faaliyetlerden hangisini kanıt olarak gösterebilir?

A) Girit'in fethi

B) Rodos'un fethi

C) İstanbul'un fethi

D) Uyvar kalesinin fethi

E) II. Viyana kuşatması

21. Osmanlı Devleti'nde XVIII. yüzyılda Avrupa'da geçici ve daimi elçiliklerin açılmasının aşağıdakilerden hangisinin önemini artırdığı söylenemez?

A) Enderun B) Diplomasi

C) Reisülküttap D) Sefâretnâme

E) Bab-ı Ali Yönetimi

MEB 2016 - 2017 • Ölçme, Değerlendirme ve Sınav Hizmetleri Genel Müdürlüğü • http : / / odsgm. meb. gov. tr/ kurslar

22. **Aşağıdakilerden hangisi XVIII. yüzyılda Osmanlı Devleti'nin maliyesinin bozulduğuna kanıt olarak gösterilebilir?**

A) Avrupa'da elçiliklerin açılması
B) Kumaş imalathanesinin açılması
C) İrad-ı Cedit hazinesinin kurulması
D) Nizam-ı Cedit Ordusu'nun kurulması
E) Esham uygulamasının hayata geçirilmesi

23. **1789'dan sonra Fransızların,** "her millete bir devlet" **sloganı ile yola çıkmalarının aşağıdakilerden hangisine ortam hazırladığı söylenemez?**

A) İhtilal Savaşları'nın yaşanması
B) Meternik sisteminin uygulanması
C) 1815 Viyana Kongresi'nin toplanması
D) Ham madde ve pazar rekabetinin hızlanması
E) Osmanlı topraklarında azınlık isyanlarının çıkması

24. Osmanlı Devleti bütün bağımsız devletler gibi diğer devletlerin kendi iç işlerine karışmasına karşı çıkmıştır. Bu konuda bazen savaşı bile göze almıştır. Fakat nadiren de olsa Osmanlı Devleti kendi içindeki olaylara Avrupalı devletlerin müdahale etmesini istemiştir.

Aşağıdaki olaylardan hangisi bu duruma kanıt olarak gösterilebilir?

A) Sırp isyanı
B) Yunan isyanı
C) Celali isyanları
D) Mehmet Ali Paşa isyanı
E) Yeniçeri Ocağı'nın kaldırılması

25. **Aşağıdakilerden hangisi Osmanlı Devleti'nde Kapıkulu ordusunun devlet yönetimine müdahale ettiğini kanıtlamaz?**

A) Vakay-ı Hayriye olayının yaşanması
B) 1807 Kabakçı Mustafa İsyanı'nın başgöstermesi
C) II. Osman'ın Yedikule zindanlarında şehit edilmesi
D) Patrona Halil İsyanı ile III. Ahmet'in tahttan indirilmesi
E) Vakay-ı Vakvakiye (Çınar Olayı) olayının yaşanması

26. Rusya'nın konumu itibariyle dünyaya açılması ve sömürgeler elde edebilmesi için sıcak denizlere inmesi gerekiyordu. Bunun yollarından birisi de Kafkasya'dan Akdeniz'e kadar olan bölgeyi ele geçirerek koridor açmaktı.

Berlin Antlaşması'nın aşağıdaki maddelerinden hangisi Rusya'nın bu amacını gerçekleştirmesine yönelik bir adım sayılabilir?

A) Teselya, Yunanistan'a bırakılacak
B) Doğu Rumeli'ye muhtariyet verilecek
C) Makedonya, Osmanlı Devleti'nde kalacak
D) Kars, Ardahan ve Batum Rusya'ya bırakılacak
E) Bosna Hersek'in yönetimi geçici olarak Avusturya'ya bırakılacak

27. II. Mahmut, Osmanlı Devleti'ni çöküşten kurtarabilmek için Avrupai tarzda ıslahatlar yapmaya önem vermiştir. Bu ıslahatları yapacak olan nitelikli elemanların da yetiştirilmesi için ıslahatlar yapmıştır.

II. Mahmut Dönemi'nde;

I. İlk kez yabancı dil okulunun açılması,
II. Divan-ı Hümayun 'un kaldırılması,
III. Avrupa'ya ilk kez öğrenci gönderilmesi,
IV. Avrupa tarzında okulların açılması

ıslahatlarından hangileri bu amacını gerçekleştirmeye yönelik olarak yapılmıştır?

A) Yalnız I B) I ve III C) I ve IV D) II ve IV E) I, III ve IV

MEB 2016 - 2017 ● Ölçme, Değerlendirme ve Sınav Hizmetleri Genel Müdürlüğü ● http : / / odsgm. meb. gov. tr/ kurslar

28. **Aşağıdakilerden hangisinin Osmanlı Devleti'nde milliyetçiliğin etkisi ile ortaya çıktığı söylenemez?**

A) Balkan Savaşları'nın çıkması

B) Ekberiyet sisteminin getirilmesi

C) Halepa Fermanı'nın hazırlanması

D) Osmanlıcılık fikir akımının ortaya atılması

E) Panslavizm düşüncesinin taraftar toplaması

29. **İtalya'nın Trablusgarp Savaşı öncesi İngiltere, Fransa ve Rusya ile işbirliği yapması aşağıdaki gelişmelerden hangisine ortam hazırlamıştır?**

A) Kıbrıs adasının İngiliz işgaline uğramasına

B) Mısır'ın İngiltere tarafından işgal edilmesine

C) İtalya'nın Alman sömürgelerini ele geçirmesine

D) Sömürgeciliğe karşı halk direnişinin başlamasına

E) Osmanlı'nın devletlerarasında denge siyaseti izleyememesine

30. **29 Nisan 1916'dan Türkiye'nin NATO'ya üye olduğu 1952 yılına kadar Türk silahlı kuvvetlerinde** 'Kut Bayramı' **olarak kutlanan ve zamanla unutulan savaş aşağıdakilerden hangisidir?**

A) 93 Harbi

B) Vadisseyl Savaşı

C) Çanakkale Savaşı

D) Kut'ül Amâre Zaferi

E) Aslıhanlar Muharebesi

31. 23 Temmuz - 7 Ağustos 1919'da toplanan Erzurum Kongresi'nde oluşturulan Temsil Heyeti, 23 Nisan 1920'de TBMM'nin açılmasına kadar görev yapmıştır.

Buna göre, aşağıdakilerden hangisi, Temsil Heyeti'nin faaliyetleri arasında yer almaz?

A) Ali Rıza Paşa Hükûmeti'nin temsilcisi olan Salih Paşa ile Amasya'da görüşülmesi

B) Yararlı Cemiyetlerin "Anadolu ve Rumeli Müdafaa-i Hukuk" adı altında birleştirilmesi

C) XV. Kolordunun Ermenilerden Kars, Sarıkamış ve Iğdır'ı ele geçirmesi

D) Ali Fuat Paşa'nın Batı Cephesi komutanlığına atanması

E) İrade-i Milliye gazetesinin çıkartılması

32. **Cumhuriyet Dönemi'nde aşağıdaki çalışmalardan hangisinde ayrıcalıksız, eşit bir toplum oluşturma amacı güdülmemiştir?**

A) Soyadı Kanunu'nun çıkartılması

B) Sümerbank ve Etibank'ın kurulması

C) Kılık ve Kıyafet Kanunu'nun çıkartılması

D) Türk Medeni Kanunu'nun kabul edilmesi

E) Kadınlara seçme ve seçilme hakkının verilmesi

33. **Cumhuriyet Dönemi'nde eğitim alanında laiklik ilkesinin benimsenmesi aşağıdakilerden hangisinin benimsenmesini de beraberinde getirdiği söylenemez?**

A) Çağdaşlık B) Akılcılık C) Bilimsellik D) Durağanlık E) Dinamiklik

MEB 2016 - 2017 • Ölçme, Değerlendirme ve Sınav Hizmetleri Genel Müdürlüğü • http://odsgm.meb.gov.tr/kurslar

34. Şeyh Sait isyanı birçok yönden ülkemiz için kayıplara yol açmıştır. Bunlardan birisi de isyan ile ilgili olduğu gerekçesi ile Türkiye'nin ilk muhalefet partisinin kapatılmasıdır. Böylelikle çok partili hayata geçiş gecikmiş ve ülkemizde demokratik gelişmeler sekteye uğramıştır.

Yukarıda sözü edilen ve Türkiye Cumhuriyeti'nin ilk muhalefet partisi aşağıdakilerden hangisidir?

A) Demokrat Parti
B) Milli Kalkınma Partisi
C) İttihat ve Terakki Partisi
D) Serbest Cumhuriyet Fırkası
E) Terakkiperver Cumhuriyet Fırkası

35. II. Dünya Savaşı öncesinde Roma İmparatorluğu'nu yeniden kurma hayalinde olan İtalya, "Bizim Deniz" politikası ile Akdeniz'de saldırgan bir tutum izlemiştir.

Bu durum, Türkiye'nin aşağıdaki sorunlarından hangisini uluslararası alanda çözüme kavuşturmasına neden olmuştur?

A) Dış borçlar
B) Musul sorunu
C) Balkan Türkleri
D) Nüfus Mübadelesi
E) Boğazların denetimi

36. **II. Dünya Savaşı sonrasında meydana gelen aşağıdaki gelişmelerden hangisinin İslâm dünyasını olumsuz etkilediği söylenebilir?**

A) Eisenhower Doktrini'nin yayımlanması
B) Mısır'ın bağımsız bir devlet olması
C) Türkiye'nin NATO'ya üye olması
D) Irak'ın bağımsız olması
E) İsrail'in kurulması

37. **II. Dünya Savaşı yıllarında İngiltere, 1943 yılından sonra Balkanlarda ortaya çıkabilecek olan otorite boşluğunu aşağıdaki devletlerden hangisinin doldurmasını engellemek amacıyla Türkiye'nin savaşa girmesinde ısrarcı olmuştur?**

A) SSCB B) ABD C) Fransa
D) Almanya E) İtalya

38. **Yugoslavya'nın dağılışı sırasında BM'nin** "Güvenli Bölge" **ilan ettiği Srebrenica bölgesinin güvenliğinden sorumlu olan ve bu bölgede Sırpların 8 bin Müslüman Boşnak sivili katletmesine göz yuman Avrupalı devlet, aşağıdakilerden hangisidir?**

A) Fransa B) Hollanda C) Danimarka
D) Belçika E) Almanya

39. **Orta Doğu'da ABD'nin baskısı neticesinde İsrail'in varlığını tanıyan ilk Arap-İslam devleti aşağıdakilerden hangisidir?**

A) Cezayir B) Irak C) Mısır
D) Ürdün E) Suudi Arabistan

40. **I. Körfez Savaşı'nın sonucunda Irak'ın 36. parelelin kuzeyine (Kuzey Irak) uçak ve ağır silah geçirmesini engellemek amacıyla merkezi Adana İncirlik üssü olan Amerikan, İngiliz, Fransız ve Türk hava kuvvetlerinden oluşturulmuş askeri işbirliği aşağıdakilerden hangisidir?**

A) Kuzey Atlantik Paktı
B) Bağdat Paktı
C) Çekiç Güç
D) ISAF
E) UÇK

MEB 2016 - 2017 • Ölçme, Değerlendirme ve Sınav Hizmetleri Genel Müdürlüğü • http : / / odsgm. meb. gov. tr/ kurslar

41. **Orta Doğu'da aşağıdaki akarsulardan hangisinin devletlerarasında suyun kullanımı konusunda ciddi sorunlara yol açması beklenemez?**

A) Kızılırmak B) Nil C) Şeria
D) Fırat E) Dicle

42. 1955 yılında Bandung Konferansı'nda alınan kararlar içinde en etkili olanı Çin ve Hindistan başbakanlarının kabul ederek dünyaya tanıtmış oldukları "barış içinde bir arada yaşamanın beş ilkesi" olmuştur.

Bu ilkeler arasında aşağıdakilerden hangisi yer almaz?

A) Milli kurtuluş savaşlarını destekleme
B) Manda ve himayeyi kabul etme
C) Askeri ittifaklara katılmama
D) İkili ittifaklara girmeme
E) Siyasi bağımsızlık

43.
- Rusya, Çin, Kazakistan, Tacikistan, Kırgızistan ve Özbekistan'ın katılımı ile oluşturulmuş bir örgütlenmedir.
- Enerjinin bütün dünyada devletlerarası ilişkilerde ağırlık merkezi hâline geldiği günümüzde enerji kaynakları bakımından son derece zengin, genç nüfusa sahip, ekonomik yapısı güçlü bu örgütlenme artık dünyada önemli bir güç hâline gelmiştir.
- Hindistan, İran, Pakistan ve Moğolistan bu örgütlenmeye gözlemci olarak katılmaktadır.
- 2012 yılında Türkiye diyalog ortağı olarak katılmıştır.

Yukarıda özellikleri verilen uluslararası işbirliği örgütü aşağıdakilerden hangisidir?

A) Türk İşbirliği ve Koordinasyon Ajansı
B) Karadeniz Ekonomik İşbirliği Örgütü
C) Bağımsız Devletler Topluluğu
D) Şanghay İşbirliği Örgütü
E) İslam İşbirliği Teşkilatı

MEB 2016 - 2017 ● Ölçme, Değerlendirme ve Sınav Hizmetleri Genel Müdürlüğü ● http://odsgm.meb.gov.tr/kurslar

Aşağıdaki sorunun cevabını, ilgili alana yazıp kodlayınız.

44. **II. Abdülhamit Dönemi'nde denge siyasetinin bir gereği olarak tarihe** "3 B Projesi" **olarak geçen demiryolu çalışması hangi devlete verilen bir imtiyazdır?**

44.

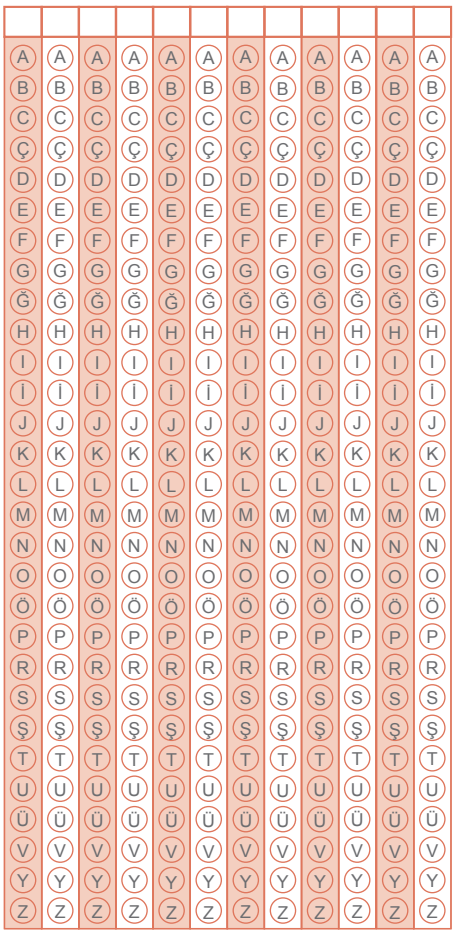

MEB 2016 - 2017 ● Ölçme, Değerlendirme ve Sınav Hizmetleri Genel Müdürlüğü ● http : / / odsgm. meb. gov. tr/ kurslar

45. **Su ekosistemlerinin iklim özellikleri üzerindeki etkisine örnek olarak;**

I. okyanus akıntılarının Ekvator ile kutuplar arasında sıcaklığı taşıyıcı etkide bulunması,

II. okyanus akıntılarının biyoçeşitliliği olumlu yönde etkilemesi,

III. aerosollerin havadaki nemin yoğunlaşmasını sağlaması

verilenlerden hangileri gösterilir?

A) Yalnız I B) Yalnız II C) I ve II
D) I ve III E) II ve III

46.
- Gelişiminde borsa, bankacılık ve ticaret sektörleri öne çıkmıştır.
- Küresel etki alanına sahiptir.

Verilenler aşağıdaki şehirlerden hangisinin özellikleri arasındadır.

A) New York B) Essen C) Amsterdam
D) Nairobi E) Pekin

47. **Aşağıdaki sanayi kollarından hangisinin yer seçiminde enerji kaynağına yakınlık daha önemli bir faktördür?**

A) Un fabrikası
B) Demir-çelik fabrikası
C) Tekstil fabrikası
D) Seramik fabrikası
E) Kağıt fabrikası

48. Aşağıda Türkiye haritası üzerinde bir tarım ürününün üretim alanları gösterilmiştir.

Bu ürün hangisidir?

A) Muz B) İncir C) Fındık
D) Çay E) Keten

49.
- Türkiye'de dağınık yataklar halinde bulunmaktadır.
- Demirin çeliğe dönüştürülmesinde kullanılır.
- Ereğli (Zonguldak), Borçka (Artvin), Tavas (Denizli) önemli üretim alanlarıdır.

Özellikleri verilen maden hangisidir?

A) Volfram B) Manganez C) Cıva
D) Boksit E) Fosfat

MEB 2016 - 2017 ● Ölçme, Değerlendirme ve Sınav Hizmetleri Genel Müdürlüğü ● http : / / odsgm. meb. gov. tr/ kurslar

50. Türkiye üç kıtanın birbirine en yakın olduğu bir yerde bulunmaktadır.

Bu durum Türkiye'de jeopolitiği etkileyen unsurlardan hangisine örnek olarak gösterilir?

A) Coğrafi konumu
B) Stratejik kaynaklar
C) Yer şekilleri özellikleri
D) Kültürel değerler
E) Politik değerler

51. Bir akarsuyun iki ülke sınırları içerisinde akış göstermesi bazen ülkeler arasında diplomatik sorunlara neden olmaktadır.

Buna göre Türkiye akarsularından;

I. Ceyhan,
II. Fırat,
III. Aras

hangilerinin diplomatik sorunlara neden olması beklenir?

A) Yalnız I B) Yalnız II C) I ve II
D) II ve III E) I, II ve III

52. Yeraltı sularından yararlanmak için çeşitli kuyular açılmakta ve sondajlarla sular yüzeye çekilmektedir. Kullanılan sular, yeraltına sızan sulardan daha fazla ise bir süre sonra yeraltı suları tükenmektedir.

Bu durumun sonucunda;

I. çevredeki akarsu ve göllerden yeraltına sızmaların artması sonucunda göl ve akarsu seviyelerinin azalması,
II. yeraltında oluşan boşlukların tavan kısmının çökmesi sonucunda can kayıplarının yaşanması,
III. yeraltı sularına kimyasal atıkların karışması sonucunda toprakların verimsizleşmesi

verilenlerden hangilerinin yaşanması beklenir?

A) Yalnız I B) Yalnız II C) I ve II
D) II ve III E) I, II ve III

53. **Küresel ısınmanın su kaynaklarına olan etkileri arasında;**

I. göl yüzeylerinin sıcaklıklarının artmasına bağlı olarak buharlaşma miktarının artış göstermesi,
II. göl seviyelerinin düşmesi sonucunda göllerde tuz veya soda oranlarının artış göstermesi,
III. yağış miktarının azalmasına bağlı olarak yer altı sularının çekilmesi

verilenlerden hangileri gösterilir?

A) Yalnız I B) Yalnız II C) I ve II
D) II ve III E) I, II ve III

MEB 2016 - 2017 • Ölçme, Değerlendirme ve Sınav Hizmetleri Genel Müdürlüğü • http://odsgm.meb.gov.tr/kurslar

54. Tarımsal faaliyetlerde insan gücüne ihtiyaç duyulması ailelerin çok çocuk sahibi olmasına ve kalabalık ailelerin ortaya çıkmasına neden olmuştur.

Bu durum aşağıdakilerden hangisine örnek olarak gösterilir?

A) Nüfusun ülkelerin gelişmişlik düzeyi üzerindeki etkisine
B) Ekonomik faaliyetlerin sosyal yaşam üzerindeki etkisine
C) Ekonomik gelişmelerin doğal kaynak kullanımı ile olan ilişkisine
D) Teknolojik gelişmelerin insan gücüne duyulan ihtiyacı azaltmasına
E) Nüfusun tarihin her döneminde önemli bir güç göstergesi olduğuna

55. 1960 yılında Devlet Planlama Teşkilatı ve Sağlık Bakanlığı tarafından 1960 öncesi nüfus artışını teşvik eden nüfus politikasının değiştirilmesi gerektiği yönünde tartışmalar başlatılmıştır.

Bu değişikliğin gerekçesi olarak;

I. hızlı nüfus artışının iktisadi gelişmeye engel olması,
II. sanayi üretimi fazla olan Avrupa ülkelerinde iş gücüne duyulan ihtiyacın artış göstermesi,
III. 1950 sonrasında sağlık hizmetlerinin gelişmesi sonucunda ölüm oranlarının azalmaya başlaması

verilenlerden hangileri gösterilir?

A) Yalnız I B) Yalnız II C) I ve II
D) I ve III E) II ve III

56. Doğal kaynakları zengin olan ülkelerden bazıları bu kaynakları verimli bir şekilde kullanarak ekonomik yönden gelişmişlerdir. Doğal kaynak bakımından zengin olup da gelişme seviyesi düşük olan ülkeler de bulunmaktadır.

Bu durum üzerinde ülkelerin;

I. araştırma geliştirme alanında yaptığı yatırımlar,
II. sanayi üretimi konusundaki yeterlilikleri,
III. nüfusun eğitim düzeyi

verilen özelliklerinden hangileri etkili olmaktadır?

A) Yalnız I B) Yalnız II C) I ve II
D) II ve III E) I, II ve III

57. Mercan resifleri okyanuslar içerisinde canlı çeşitliliğinin oldukça zengin olduğu yerlerdir.

Bu durumun sebebi olarak;

I. birçok canlının üreme alanı olması,
II. balıklar için besin oluşturan planktonların fazlaca bulunması,
III. denizlerde asit oranının değişmesine bağlı olarak başta mercanlar olmak üzere birçok canlının ölmesi

verilenlerden hangileri gösterilir?

A) Yalnız I B) Yalnız II C) I ve II
D) II ve III E) I, II ve III

MEB 2016 - 2017 • Ölçme, Değerlendirme ve Sınav Hizmetleri Genel Müdürlüğü • http : / / odsgm. meb. gov. tr/ kurslar

Aşağıdaki sorunun cevabını, ilgili alana yazıp kodlayınız.

58. Bir limanı ekonomik olarak besleyen alana ne denir?

58.

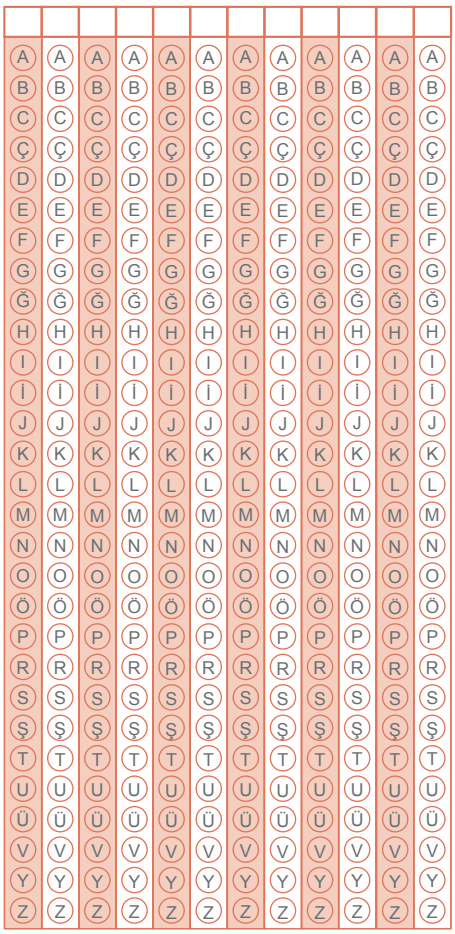

MEB 2016 - 2017 ● Ölçme, Değerlendirme ve Sınav Hizmetleri Genel Müdürlüğü ● http : / / odsgm. meb. gov. tr/ kurslar

59. Psikolojide sıkça kullanılan bilinç kavramı, beraberinde "farkındalık" kavramını doğurmuştur. Peki nedir bu farkındalık? Jung'a göre; bilinç, davranış sürecinde, aktif ve yönlendirici rol oynarken, bunun gerisinde farkında olmadığımız bilinçaltı süreçler de etkili olmaktadır. Olayları kavrama sürecinde bilinç, sınırlı ve süreli etkili olurken; bilinçaltı, farkında olmadığımız; dolaylı, süresiz ve devamlı etkide bulunur. Bu nedenle, bir davranışı bu iki süreci de göz önünde bulundurduğumuz taktirde ancak tam olarak anlamış olabiliriz.

Parçada anlatılmak istenen temel düşünce aşağıdakilerden hangisidir?

A) Bilinç, bireyin iç dünyası ile toplumsal değer yargılarını örtüştürerek, tutarlı eyleme dönüştürmesidir.

B) Davranışı anlamak için hem bilinç boyutuna, hem de bilinçaltı süreçlere, birlikte bakılmalıdır.

C) Davranış, bilinçli iradeli biçimde gerçekleştirilmiş gözükse de, temel etki bilinçaltında saklıdır.

D) İnsan diğer canlılardan farklı olarak, davranışta bulunurken irade ve farkındalığa sahiptir.

E) Davranışı etkileyen temel süreçlerden çok, toplumsal değerlere uygunluğuna bakılmalıdır.

60. Psikoloji tarihinde, insanın doğuştan sahip olabileceği tartışılan tüm özellikler bir dönem yadsınmış, istediğimiz doğrultuda davranış elde edebilmenin mümkün olduğu düşüncesi egemen olmuştur. Bu düşünceye göre, uyarıcıları doğru yönlendirdiğimiz takdirde istenen sonuçları almamak için bir neden yoktur. Ancak 20. yy'dan itibaren, tam tersine, her insanın biricik ve özel olduğu, bu nedenle de değerli olduğu gerçekliğinden hareketle, bu tür mekanik ve aşırı ölçme-yönlendirme düşüncesinden vazgeçilmiştir.

Buna göre, psikolojinin tarihsel gelişimi ile ilgili aşağıdaki yargılardan hangisine ulaşılamaz?

A) Psikoloji tarihinde, farklı görüşleri savunan yaklaşımlar bulunmaktadır.

B) Eskiden, insan davranışlarının dış etkilerle tamamen yönlendirilebileceği düşünülmüştür.

C) Modern görüş, insanın kapasitesinin dış etkiler tarafından sınırlandırılmasını eleştirir.

D) Psikolojinin insan doğası ve yeterliliklerine dair görüşü değişmiştir.

E) Geleneksel yapı, bilimsel düşüncenin ilerlemesini yavaşlatmıştır.

MEB 2016 - 2017 ● Ölçme, Değerlendirme ve Sınav Hizmetleri Genel Müdürlüğü ● http : / / odsgm. meb. gov. tr/ kurslar

61. **Aşağıdakilerden hangisi bir öğrenme davranışı olarak kabul edilebilir?**

A) Kişinin ani bir gök gürültüsü ile irkilmesi

B) Örümceklerin ağ örmesi

C) Göz bebeklerinin karanlıkta büyümesi

D) Ayıların müzik çalınca dans etmesi

E) Organizmanın aşırı soğukta titremesi

62. **Aşağıdakilerden hangisi bir duyarlılaşma örneğidir?**

A) Köpek tarafından daha evvel ısırılan bir çocuğun duyduğu her havlama sesine tepki vermesi

B) Sabah sıkılan parfüm kokusunun gün içinde giderek daha az duyumsanması

C) Bir annenin gece bebeğinin en ufak bir sesine hemen uyanmaya başlaması

D) Denize ilk girdiğimizde oluşan serinlik kaynaklı ürpertiye, bir süre sonra vücudun tepki vermemesi

E) İlk giydiğimizde dar gelen ayakkabının acısına, zaman geçtikçe tepki verilmemesi

63. **Dış dünyadan gelen uyarıcıların, duyu organları tarafından alınarak beyne iletilmesine ne ad verilir?**

A) Algı B) Dürtü C) Duyum D) Tepki E) Üst eşik

64. İnsan, toplumsal bir varlıktır. Sahip olduğu sosyal güdüler, içinde yaşadığı toplumsal yapı tarafından şekillendirilir. Sosyal ve kültürel ihtiyaçlardan dolayı ortaya çıkan bu güdüler, yaşantılarla zenginleşir.

Buna göre, aşağıdakilerden hangisi sosyal güdü kaynaklı bir davranış değildir?

A) Aşırı uyarılma sonucu kendini koruma durumu

B) İnsanlar tarafından saygı görme ihtiyacı

C) Bir sosyal gruba ait olma duygusu

D) Lider olma ve kendini kabul ettirme isteği

E) Toplum tarafından beğenilme isteği

65. İnsanlar sosyalleşirken çevrelerindeki duygu, düşünce, davranış ve değerleri benimserler. Bireyin benimsediği bu davranışlar, toplumsal değerler ve ahlak kalıpları içerisinde yerini bulur.

Bu parçada aşağıdaki kavramlardan hangisine vurgu yapılmaktadır?

A) Benlik B) Mizaç C) Karakter D) Zeka E) Yetenek

MEB 2016 - 2017 • Ölçme, Değerlendirme ve Sınav Hizmetleri Genel Müdürlüğü • http : / / odsgm. meb. gov. tr/ kurslar

66. Uzandığı bir resmi alabilmek için ısrar eden çocuğa, annesi; çocuğun mızmızlanması geçsin diye istediği resmi hemen vermiştir. Daha sonra çocuğun başka bir huysuzluğuna karşılık anne, yine bu resmi verince çocuğun tepkisinin geçtiğini görüp, bunu taktik olarak kullanmıştır. Fakat aynı annenin, çocuğunun ağlamayı alışkanlık haline getirdiğinden ve çok 'mızmız' olduğundan yakındığı görülmüştür.

Burada öğrenme süreciyle ilgili aşağıdakilerden hangisi dile getirilmektedir?

A) Annenin farkında olmadan, çocuğun ağlamasını pekiştirmesi

B) Çocukların istekleri karşılanmazsa doğuştan ağlamaya yatkın olması

C) Annenin, çocuğun her istediğini yapabilecek zamanının olmaması

D) Annenin çocuğun ihtiyaçlarına karşı duyarlı olmaması

E) Çocuğun öğrenme sürecinde pekiştireçleri yanlış yorumlaması

67. Sosyoloji, en az iki kişi arasındaki ilişkilerden başlayarak, grupları, kurumları ve toplumu inceleyen bir bilim dalıdır. Birey, belli bir davranışta bulunurken, elbette içinde yaşadığı toplumun değer yargıları ve normlarından etkilenmektedir. Ancak sosyolog, herhangi bir konuyu incelerken, daha önce edinmiş olduğu değer yargılarından mutlaka kendini arındırmalıdır.

Bu durum, sosyolojinin hangi özelliğinden kaynaklanmaktadır?

A) Öznelliğinden B) Evrenselliğinden

C) Nesnelliğinden D) Sistematikliğinden

E) Normatifliğinden

68. Sosyoloji tarihinde ilk olarak İbn-i Haldun, toplumu, insanları birbirine bağlayan duygu temelinde, kan bağıyla bir araya gelmiş göçebeler ve belli amaçlarla bir araya gelen yerleşik hayatı paylaşan hadariler olarak ikiye ayırmıştır. Emile Durkheim ise toplumu yüz yüze, samimi ilişkilerin olduğu mekanik dayanışma, resmi ilişkilerin ve işbölümünün olduğu organik dayanışma olmak üzere ikiye ayırmıştır.

Durkheim ve İbn-i Haldun, toplumsal yapıyı ayırırken aşağıdaki kriterlerden hangisini temel almaktadır?

A) İbn-i Haldun yaşam tarzlarını, Durkheim ilişkilerin niteliğini

B) İbn-i Haldun toplumsal sınıfı, Durkheim değerleri

C) İbn-i Haldun objektifliği, Durkheim subjektifliği

D) İbn-i Haldun toplumların tarihsel yapısını, Durkheim evrensel normları

E) İbn-i Haldun ilişkilerin niceliğini, Durkheim psikolojik etmenleri

69. Toplumsal araştırmalarda elde edilen bulgular, ülke düzeyinde bir takım planlamalara ışık tutabilmektedir. Örneğin; aile üzerinde yapılan bir araştırmanın sonucunda, aile ile ilgili planlamalarda yeni politikaların geliştirilmesinde yol gösterici olabilmektedir.

Parçada toplumsal araştırmaların hangi özelliğinden söz edilmektedir?

A) Objektif olarak hazırlanmaları

B) Zamanın koşullarına uygun hale getirilmeleri

C) Önyargılardan uzak olmaları

D) Öngörüde bulunmaları

E) Neden-sonuç ilişkisine dayanmaları

MEB 2016 - 2017 ● Ölçme, Değerlendirme ve Sınav Hizmetleri Genel Müdürlüğü ● http://odsgm.meb.gov.tr/kurslar

70. Toplumsal olay, toplumsal yaşamda ilişkiler sonucunda ortaya çıkan tek tek değişmelerdir. Toplumsal olayın belli bir yeri, zamanı ve faili vardır. Örneğin; 1789 Fransız İhtilali toplumsal bir olaydır.

Buna göre, toplumsal olayla ilgili aşağıda dile getirilen ifadelerden hangisi yanlıştır?

A) Toplumu etkiler.
B) Sürekliliğe sahiptir.
C) Yeri ve zamanı bellidir.
D) Tektir.
E) Toplumu değiştirir.

71. Toplumsal değişim kavramına ilişkin, aşağıdaki yargılardan hangileri doğrudur?

I. Değişme kaçınılmazdır ve her toplum mutlaka değişir.
II. Değişim, olumlu yönde ve süreklidir.
III. Toplumların değişme hızı aynıdır.
IV. Maddi özellikler manevi özelliklere göre daha hızlı değişir.

A) I ve II B) I ve III C) I ve IV
D) II ve IV E) III ve IV

72. Kent, sanayi ve ticaretle uğraşan çok sayıda insanın toplu olarak bir arada yaşadığı yerleşim biçimidir. Kentler; üretim şekli, tüketim alışkanlıkları eğitim olanakları ile sosyal ilişkiler ve sanatsal faaliyetler gibi özellikler bakımdan köylerden farklıdır.

Buna göre, aşağıdakilerden hangisi kent toplumunun özelliklerinden biri değildir?

A) İnsanlararası ilişkiler resmidir.
B) Kişisel çıkarlar ön plandadır.
C) Heterojen bir yapıya sahiptir.
D) Üyeleri biz duygusuna sahiptir.
E) Yoğun bir nüfusa sahiptir.

73. Aşağıda yer alan maddelerden hangisi toplumsal hareketliliğe bağlı değişime etki eden unsurlardan biri değildir?

I. Göçler
II. Doğal afetler
III. Kitle iletişim araçlarının yaygınlaşması
IV. Eğitim düzeyinin yükselmesi
V. Geleneksel değerlerin muhafaza edilmesi

A) I B) II C) III D) IV E) V

74. Mantık, doğru düşünme bilimidir. Zihni, hata yapmaktan koruyan en güvenilir araçtır. Mantıkta önemli olan, düşüncenin nasıl oluştuğu veya düşüncelerin gerçeğe uygunluğundan ziyade, düşünmenin biçimidir.

Buna göre, mantıkta doğru düşünmenin ölçütü aşağıdakilerden hangisidir?

A) Akıl ilkelerine uygun olma
B) Evrensel uzlaşım sağlama
C) Deneyimlere uygun olma
D) Yeni bilgilere ulaşma
E) Beklentileri karşılama

75.
- Dağ; kavramı nelik ve gerçekliğe sahiptir.
- Kaz Dağı; karşımda duran bu dağın, hem neliği, hem gerçekliği hem de kimliği vardır.
- Kaf Dağı; zihnimde var olmasına rağmen gerçekliği bulunmamaktadır.

Buna göre, aşağıdaki yargılardan hangisine ulaşılamaz?

A) Kavramların neliği olsa da, gerçekliği olmayabilir.
B) Gerçeklik, zamanda ve mekânda var olmaktır.
C) Gerçekliği olan kavramın neliği vardır.
D) Neliği olan kavramların tümü algılanabilir.
E) Kimliği olan kavramın neliği de vardır.

MEB 2016 - 2017 • Ölçme, Değerlendirme ve Sınav Hizmetleri Genel Müdürlüğü • http : / / odsgm. meb. gov. tr/ kurslar

76. **Aşağıdakilerden hangisi olumlu ve tümel bir önermedir?**

A) Bazı insanlar şanslıdır.

B) Her insan ölümden korkar.

C) Yağmur yağarsa yerler ıslanır.

D) Konuşmak bir sanat değildir.

E) Hiçbir köyde belediye yoktur.

77. "Hiçbir çocuk çirkin değildir." **önermesinin eşdeğeri aşağıdakilerden hangisidir?**

A) Bütün çocuklar çirkindir.

B) Bazı çocuklar çirkindir.

C) Bazı çocuklar çirkin değildir.

D) Hiçbir çirkin çocuk değildir.

E) Bazı çirkinler çocuk değildir.

78. **Kıyas kuralları ile ilgili aşağıdaki ifadelerden hangisi yanlıştır?**

A) Her basit kıyasta büyük, küçük ve orta terim bulunmalıdır.

B) İki olumsuz öncülden sonuç çıkmaz.

C) Öncüllerin ikisi de tikel olmalıdır.

D) Sonuç daima öncüllerden zayıf olana bağlanır.

E) Orta terim sonuçta bulunmamalıdır.

79. **$\sim[(p \vee q) \Rightarrow (p \vee \sim q)]$ önermesi ile ilgili aşağıdakilerden hangisi doğrudur?**

I. Geçersiz

II. Tutarlı

III. Eşdeğer

A) Yalnız I B) I ve II C) I ve III D) II ve III E) Yalnız III

80. **Aşağıdaki tabloda verilen bilgilere göre hangi seçenek yanlıştır?**

				I	II	III	IV
p	q	~p	~q	pvq	p⇒~q	~p⇔q	~p∧~q
D	D	Y	Y	D	Y	Y	Y
D	Y	Y	D	D	D	D	Y
Y	D	D	Y	D	D	D	Y
Y	Y	D	D	Y	D	Y	D

A) I. önerme tutarlı fakat geçersizdir.

B) II. önerme geçersizdir.

C) Hiçbir önerme eşdeğer değildir.

D) Bütün önermeler tutarlıdır.

E) Bütün önermeler birlikte tutarlıdır.

81. "Hakan hem sporcu hem öğrencidir." **önermesinin niceleme mantığına göre sembolleştirilmiş şekli aşağıdakilerden hangisidir?**

A) Fa ∧ Ga

B) ∀x Fx

C) ∃x ~Fx

D) Fa

E) Fa ∨ Gb

MEB 2016 - 2017 • Ölçme, Değerlendirme ve Sınav Hizmetleri Genel Müdürlüğü • http : / / odsgm. meb. gov. tr/ kurslar

Aşağıdaki sorunun cevabını, ilgili alana yazıp kodlayınız.

82. İnsan toplum içinde sosyal ilişkiler kurarak bazı birlikteliklikler yaşar. Kendine özgü beklenti ve amaçlarla oluşan bu tür birlikteliklerin bazıları kısa süreli, bazıları da uzun süreli olabilir. Hatta bazılarının içinde doğar, bazılarını ise oluşturmak için özel çaba sarfederiz.

Parçada anlatılan toplumsal birlikteliği ifade eden kavram nedir?

82.

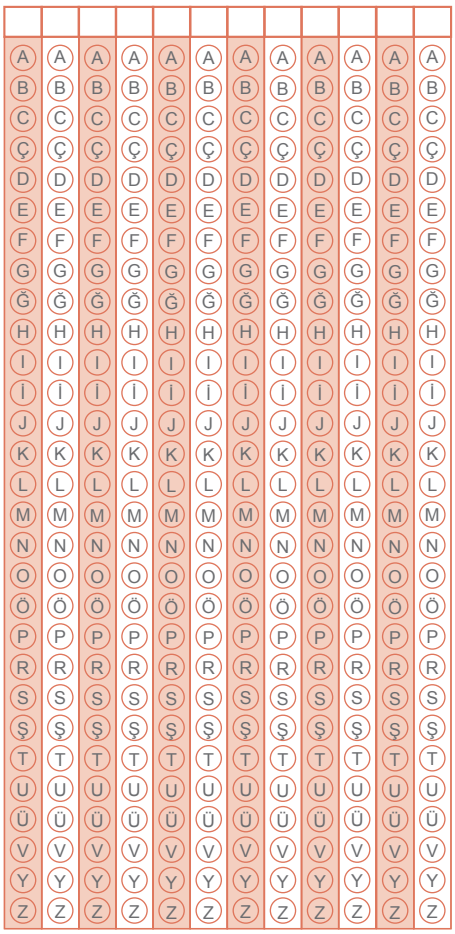

MEB 2016 - 2017 ● Ölçme, Değerlendirme ve Sınav Hizmetleri Genel Müdürlüğü ● http://odsgm.meb.gov.tr/kurslar

83. Kur'an-ı Kerim'deki ayetlerin çoğu, her insan tarafından okunduğunda anlaşılabilecek niteliktedir. Bunun yanında yoruma açık ve mecaz anlamlar taşıyan ayetler de yer almaktadır. Bunlar da bir ilmi disiplin içerisinde çalışma yaparak doğru anlaşılabilirler. Bu nedenle İslam âlimleri Kur'an ayetlerinin doğru anlaşılması için her dönemde çalışmalar yapmış ve bu amaçla Kur'an'ı doğru anlama ve yorumlamaya dair birtakım ilkeler belirlemişlerdir.

Aşağıdakilerden hangisi bu ilkelerden biri değildir?

A) Temel İslam bilimlerine vakıf olmak
B) Ayetlerin nüzul ortamını dikkate almak
C) Aynı konuyla ilgili ayetleri bir bütün olarak değerlendirmek
D) Farklı kültürlerdeki yaygın inanç biçimlerini yoruma dâhil etmek
E) Hz. Peygamberin açıklama veya uygulamalarına başvurmak

84. İslam'ın ilme verdiği önemin farkında olan Müslüman düşünür ve bilim adamları, din bilimlerinin yanı sıra sosyal bilimler, matematik ve fen bilimleri gibi pek çok alanda da önemli çalışmalar yapmışlardır. Öyle ki Müslüman bilim adamlarının sözü edilen alanlarda geliştirdikleri görüş, teori ve buluşların çoğu bugün hâlâ geçerliliğini korumaktadır.

Buna göre aşağıdaki Müslüman bilginlerden hangisi diğerlerinden farklı bir alanda yaptığı çalışmalarla tanınmıştır?

A) Battani
B) Harezmi
C) Uluğbey
D) Ali Kuşçu
E) İbn-i Haldun

85. İslam düşüncesinde din anlayışına bağlı olarak literatürde mezhep denen yorum farklılıkları ortaya çıkmıştır. Bu farklılıklar da çeşitli yorum gruplarının ortaya çıkmasına sebep olmuştur. Bunda da kuşkusuz bir yorumun bu gruplardan hangisine dâhil olacağı o yorumun hangi problemler etrafında oluştuğu ya da hangi tür problemlere çözüm ürettiği etkili olmuştur.

Bu grupların sınıflandırılmasında,

I. Ameli
II. İtikadi
III. Siyasi

problemlerin hangileri etkili olmuştur?

A) Yalnız I B) Yalnız II C) I ve III.
D) II ve III. E) I, II ve III.

86.
- "İnsan, kendisinin başıboş bırakılacağını mı sanır!" (Kıyâmet suresi, 36. ayet)
- "İman edip iyi işler yapanlara ne mutlu! Varılacak güzel yurt da onlar içindir." (Ra'd suresi, 29. ayet)
- "Başınıza gelen herhangi bir musibet, kendi ellerinizle işledikleriniz yüzündendir..." (Şura suresi, 30. ayet)

Bu ayetlerde vurgulanan ortak husus aşağıdakilerden hangisidir?

A) İnsanın gözetim altında olduğu
B) Allah'ın kulları için kötülük istemediği
C) İnsanın Rabbine itaat etmesi gerektiği
D) İnsanın, yaptıklarının karşılığını göreceği
E) İnsanın kötülük yapmaya müsait bir varlık olduğu

MEB 2016 - 2017 ● Ölçme, Değerlendirme ve Sınav Hizmetleri Genel Müdürlüğü ● http : / / odsgm. meb. gov. tr/ kurslar

87. "Hakkında bilgin olmayan şeyin ardına düşme! Çünkü kulak, göz ve gönül, bunların hepsi ondan sorumludur."

(İsrâ suresi, 36. ayet)

Aşağıdaki davranışlardan hangisi bu ayetteki uyarıyla çelişmez?

A) Gıybet etmek
B) İftirada bulunmak
C) Yalancı şahitlik yapmak
D) Bir haberin doğruluğunu araştırmak
E) Bir insan hakkında zanna uymak

88. Bırak çalışmayı, emret oturduğun yerden,
Yorulma, öyle ya, Mevla ecir-i hassın iken;
Yazıp sabahleyin evden çıkarken işlerini,
Birer birer oku tekmil edince defterini;
Bütün o işleri Rabbim görür: Vazifesidir…
Yükün hafifledi… Sen şimdi doğru kahveye gir!

(Mehmet Akif Ersoy)

Mehmet Akif bu dizelerde insanları, aşağıdaki kavramlardan hangisini yanlış anladıkları için eleştirmektedir?

A) Kader B) Tevekkül C) İman
D) Sevap E) Cüzi irade

89.
- "Bir kötülüğün karşılığı onun gibi bir kötülüktür (ona denk bir cezadır). Ama kim affeder ve arayı düzeltirse, onun mükâfatı Allah'a aittir…"

(Şûrâ suresi, 40. ayet)

- "Ancak tövbe edip de inanan ve salih amel işleyenler başka; Allah işte onların kötülüklerini iyiliklere çevirir. Allah, çok bağışlayandır, çok merhamet edendir."

(Furkan suresi, 70. ayet)

- "...Kim Allah'a inanır ve salih amel işlerse, Allah onun kötülüklerini örter ve onu içinden ırmaklar akan, ebedî kalacakları cennetlere sokar. İşte büyük kurtuluş budur."

(Teğabun suresi, 9. ayet)

Bu ayetlerden aşağıdaki yargıların hangisine varılamaz?

A) Affedici olmak insanı Allah'a yakınlaştırır.
B) İyilikler Allah tarafından ödüllendirilecektir.
C) Günahın çokluğu kişiyi ümitsizliğe düşürmemelidir.
D) Bağışlanmak için ilk önce kötülükler terkedilmelidir.
E) Bağışlayıcı olmak her insanın başaramayacağı bir iştir.

90. Sözlükte "güzellik" anlamına gelen estetik kelimesi, terim olarak genellikle eşya ve olgularda varlığı hissedilen ve insan ruhunda beğenme, hoşlanma, zevk alma gibi olumlu duygular ve yargılar doğuran nitelikleri ifade eder. Bu bağlamda Kur'an'da da estetik olana yapılan vurgular önemli bir yer tutar.

Buna göre, Kur'an'da estetik olana yapılan vurgu;

I. Ahiret hayatı
II. Allah'ın yaratması
III. Tutum ve davranış

konularından hangilerine yönelik olduğu söylenebilir?

A) Yalnız I B) Yalnız II C) I ve III.
D) II ve III. E) I, II ve III.

SOSYAL BİLİMLER TESTİ BİTTİ.

CEVAPLARINIZI KONTROL EDİNİZ.

MEB 2016 - 2017 • Ölçme, Değerlendirme ve Sınav Hizmetleri Genel Müdürlüğü • http://odsgm.meb.gov.tr/kurslar

SINAV BAŞLAMADAN ÖNCE AŞAĞIDAKİ UYARILARI MUTLAKA OKUYUNUZ.

1. Sınav kimlik bilgilerinizin doğruluğundan emin olunuz.
2. Sınav başladıktan sonra çevrenizdekilerle konuşmayınız.
3. Soruları cevaplamaya istediğiniz sorudan başlayabilirsiniz.
4. Cevaplarınızı cevap anahtarındaki ilgili soru numarasını dikkate alarak uygun bölüme kodlayınız.
5. Kısa cevaplı sorularda ilgili sorunun cevabını yandaki alana düzgün bir şekilde kodlayınız.
6. Değiştirmek istediğiniz cevabı cevap anahtarına kodladığınızdan emin olunuz.
7. Cevabını bilmediğiniz sorular üzerinde fazla zaman kaybetmeden diğer sorulara geçiniz. Zaman kalırsa bu sorulara daha sonra dönebilirsiniz.
8. Sınav puanınızın hesaplanmasında sadece doğru cevaplarınız dikkate alınacaktır.
9. Cevap anahtarınızı sınav süresince başkalarının göremeyeceği şekilde önünüzde bulundurunuz.
10. Sınav sırasında sözlük, hesap makinası, cep telefonu ve bilgisayarınızın bu özelliklerini kullanmayınız.
11. Sınav süresince yerinizden ayrılmayınız.

Bu kitapçığın her hakkı saklıdır. Hangi amaçla olursa olsun, kitapçığın tamamının veya bir kısmının Millî Eğitim Bakanlığı Ölçme, Değerlendirme ve Sınav Hizmetleri Genel Müdürlüğünün yazılı izni olmadan kopya edilmesi, fotoğraflarının çekilmesi, bilgisayar ortamına alınması, herhangi bir yolla çoğaltılması, yayımlanması ve başka bir amaçla kullanılması yasaktır. Bu yasağa uymayanlar, doğabilecek hukukî sorumluluğu ve sınavın hazırlanmasındaki malî yükümlülüğü peşinen kabullenmiş sayılır.